تم تحميل وعرض المادة من

موقع مادتي

www.madty.net

موقع مادتي هو موقع تعليمي يعمل على مساعدة المعلمين والطلاب وأولياء الأمور في تقديم حلول الكتب المدرسية والاختبارات وشرح الدروس والملخصات والتحاضير وتوزيع المنهج لكل المراحل الدراسية بشكل واضح وسهل مجاناً بتصفح وعرض مباشر أونلاين وتحميل على موقع مادتي

تطبيق مادتي

احصل عليه من Google Play

2023 - 1445

المملكة العربية السعودية
وزارة التعليم
إدارة تعليم منطقة .....
مدرسة .....

الصف: ثالث ابتدائي
اليوم :
التاريخ : / /١٤٤٥هـ

اختبار الفترة لمادة العلوم للصف الثالث ابتدائي الفصل الدراسي الأول

٢٠

اسم الطالبة: .....

اختاري الإجابة الصحيحة:

١- وحدة بناء اجسام جميع المخلوقات الحية هي:							
أ	الهواء	ب	الخلايا	ج	الماء	د	الغذاء
٢- تثبت النباتات وتمتص الماء والاملاح المعدنية من التربة:							
أ	الأوراق	ب	الساق	ج	الجذور	د	الازهار
٣- جزء في النبات يحمل داخله البذور:							
أ	الساق	ب	الأوراق	ج	الثمرة	د	الجذور
٤- يسمى انتقال حبوب اللقاح من الجزء الذكري الى الجزء الانثوي بـ:							
أ	البناء الضوئي	ب	البذرة	ج	التلقيح	د	دورة الحياة
٥- الجزء الذي يقوم بصنع الغذاء عن طريق عملية البناء الضوئي :							
أ	الأوراق	ب	الساق	ج	الجذور	د	الازهار

ضعي علامة ✓ او ✗ امام العبارات التالية:

١- المخلوقات الحية تنمو وتستجيب وتتكاثر.	
٢- بعض الحيوانات يتغير شكلها في اثناء دورة حياتها ويسمى ذلك التحول.	
٣- يبدأ الجمل حياتة ببيضة.	
٤- يمر الضفدع بدورة حياتة بالتحول.	
٥- النباتات التي لها ازهار تسمى بالنباتات الزهرية.	

رتبى دورة حياة المخلوقات الحية التالية:



انتهت الأسئلة

دعواتي لكن بالتوفيق والنجاح

المعلمة: أمل الزهراني

نموذج اجابة

المملكة العربية السعودية
وزارة التعليم
إدارة تعليم منطقة .....
مدرسة .....

الصف: ثالث ابتدائي
اليوم :
التاريخ : / /١٤٤٥هـ

اختبار الفترة لمادة العلوم للصف الثالث ابتدائي الفصل الدراسي الأول

٢٠

اسم الطالبة: .....

اختاري الإجابة الصحيحة:

١- وحدة بناء اجسام جميع المخلوقات الحية هي:							
أ	الهواء	ب	الخلايا	ج	الماء	د	الغذاء
٢- تثبت النباتات وتمتص الماء والاملاح المعدنية من التربة:							
أ	الأوراق	ب	الساق	ج	الجذور	د	الازهار
٣- جزء في النبات يحمل داخله البذور:							
أ	الساق	ب	الأوراق	ج	الثمرة	د	الجذور
٤- يسمى انتقال حبوب اللقاح من الجزء الذكري الى الجزء الانثوي بـ:							
أ	البناء الضوئي	ب	البذرة	ج	التلقيح	د	دورة الحياة
٥- الجزء الذي يقوم بصنع الغذاء عن طريق عملية البناء الضوئي :							
أ	الأوراق	ب	الساق	ج	الجذور	د	الازهار

ضعي علامة ✓ او ✗ امام العبارات التالية:

١- المخلوقات الحية تنمو وتستجيب وتتكاثر.	✓
٢- بعض الحيوانات يتغير شكلها في اثناء دورة حياتها ويسمى ذلك التحول.	✓
٣- يبدأ الجمل حياتة ببيضة.	✗
٤- يمر الضفدع بدورة حياتة بالتحول.	✓
٥- النباتات التي لها ازهار تسمى بالنباتات الزهرية.	✓

رتبى دورة حياة المخلوقات الحية التالية:



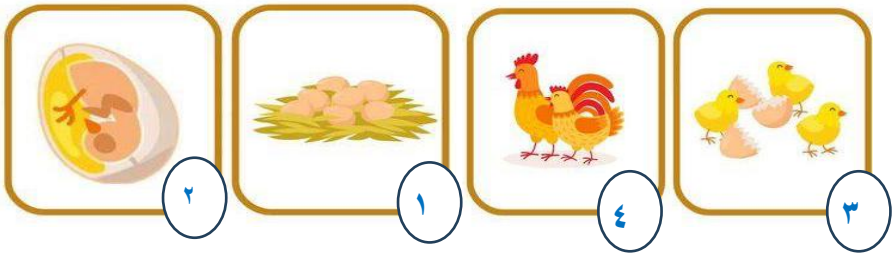

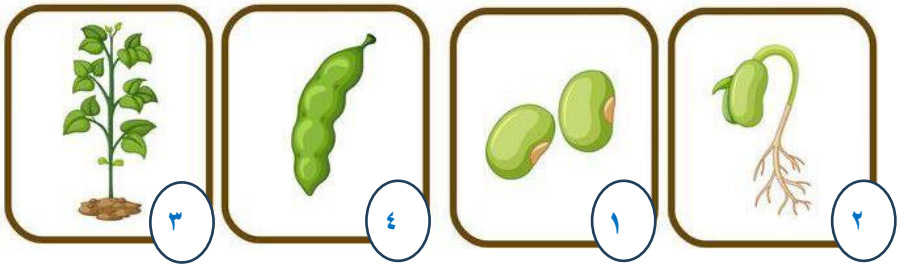



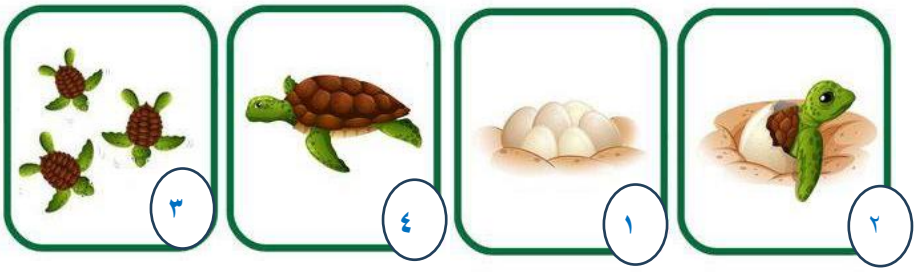

انتهت الأسئلة

دعواتي لكن بالتوفيق والنجاح

المعلمة: أمل الزهراني

المملكة العربية السعودية
وزارة التعليم
الإدارة العامة للتعليم بمنطقة .....

٢٠

اختبار (منتصف الفصل الدراسي الأول) مادة العلوم للصف الثالث لعام ١٤٤٥هـ

اسم الطالب / ة : .....

١٠

* نختار الإجابة الصحيحة فيما يلي :

١) أول خطوة من خطوات الطريقة العلمية هي — أسال * استنتج * الاحظ

٢) أي مما يلي يعد من المخلوقات الحية — الرمل – النبات – الصخرة

٣)- جزء صغير في البذرة يستمد غذاؤه لينمو — الجنين – البيئة – الأسماك

٤)-يسمى انتقال حبوب اللقاح من الجزء الذكري الى الأنثوي — التلقيح – التحول – الأزهار

٥-) ينتج المخلوق الحي أفراداً من نوعه — التكاثر – الجذور – المكان

ب) نصل كل مصطلح علمي بالعبارة المناسبة له :-

المصطلح العلمي	العبارات
الخلايا	عملية تصنع فيها النباتات غذاؤها
البناء الضوئي	وحدات بنائية تكون أجسام المخلوقات الحية
البذرة	سلسلة من التغيرات يمر بها المخلوق الحي في نموه
التحول	تركيب يمكن أن ينبت لينمو ويصير نبات جديد

ج) أ – من خلال الصور التالية نستنتج حاجات المخلوقات :-

(.....)

(.....)

(.....)

(.....)

١٠

نضع علامة ✓ او ✖ امام العبارات التالية:

	البرمائيات والحشرات تبدأ دورة حياتها بالبيضة
	الجزء المذكر في الزهرة ينتج حبوب اللقاح
	تحتاج المخلوقات الحية لكي تعيش إلى صخور
	الخلايا صغيرة جداً لا يمكن رؤيتها بالعين المجردة

ب) ما هى أجزاء النبات التى تقوم بالوظائف التالية :-

الوظيفة	الجزء
صنع الغذاء	.....
نقل الماء والأملاح المعدنية	.....
تثبيت النبات في التربة	.....

ج) – تنمو النباتات الزهرية من البذور , على الرسم التالى نحدد أجزاء البذرة :-

سكره الشمري

نموذج اجابة

المملكة العربية السعودية
وزارة التعليم
الإدارة العامة للتعليم بمنطقة .....

٢٠

اختبار (منتصف الفصل الدراسي الأول) مادة العلوم للصف الثالث لعام ١٤٤٥هـ

اسم الطالب / ة : .....

١٠

* نختار الإجابة الصحيحة فيما يلي :

١) أول خطوة من خطوات الطريقة العلمية هي — أسال * استنتج * **الاحظ**

٢) أي مما يلي يعد من المخلوقات الحية — الرمل - **النبات** - الصخرة

٣)- جزء صغير في البذرة يستمد غذاؤه لينمو — **الجنين** - البيئة - الأسماك

٤)-يسمى انتقال حبوب اللقاح من الجزء الذكري الى الأنثوي — **التلقيح** - التحول - الأزهار

٥-) ينتج المخلوق الحي أفراداً من نوعه — **التكاثر** - الجذور - المكان

ب) نصل كل مصطلح علمي بالعبارة المناسبة له :-

المصطلح العلمي	العبارات
الخلايا	عملية تصنع فيها النباتات غذاؤها
البناء الضوئي	وحدات بنائية تكون أجسام المخلوقات الحية
البذرة	سلسلة من التغيرات يمر بها المخلوق الحي في نموه
التحول	تركيب يمكن أن ينبت لينمو ويصير نبات جديد

ج) أ – من خلال الصور التالية نستنتج حاجات المخلوقات :-

(.. المكان ..)

(.. الماء ...)

(.الغازات.)

(. الغذاء .)

١٠

نضع علامة ✓ او ✗ امام العبارات التالية:

البرمائيات والحشرات تبدأ دورة حياتها بالبيضة	✓
الجزء المذكر في الزهرة ينتج حبوب اللقاح	✓
تحتاج المخلوقات الحية لكي تعيش إلى صخور	✗
الخلايا صغيرة جداً لا يمكن رؤيتها بالعين المجردة	✓

ب) ما هي أجزاء النبات التي تقوم بالوظائف التالية :-

الوظيفة	الجزء
صنع الغذاء	الأوراق
نقل الماء والأملاح المعدنية	الساق
تثبيت النبات في التربة	الجذور

ج) – تنمو النباتات الزهرية من البذور , على الرسم التالي نحدد أجزاء البذرة :-

سكره الشمري

المملكة العربية السعودية
وزارة التعليم
الإدارة العامة للتعليم بمنطقة .....

الصف :
المـادة :
اليوم :
التاريخ : / / ١٤٤٤ هـ

اختبار (الفترة الاولى) مادة العلوم للصف الثالث الفصل الدراسي الأول لعام ١٤٤٤ هـ

اسم الطالب / ة : ..... الدرجة الكلية ٢٠ درجة

السؤال الأول :-

١٠

* نختار الإجابة الصحيحة فيما يلي :

١) أول خطوة من خطوات الطريقة العلمية هي : (أسأل – أستنتج – ألاحظ)

٢) أي مما يلي يعد من المخلوقات الحية : (الرمل – النبات – الصخرة)

٣- جزء صغير في البذرة يستمد غذاؤه لينمو : (الجنين – البيئة – الأسماك)

٤- أشياء حية وأشياء غير حية مكونات: (النظام البيئي – التحول – الأزهار)

٥- ينتج المخلوق الحي أفراداً من نوعه: (التكاثر – الجذور – المكان)

ب) نصل كل مصطلح علمي بالعبارة المناسبة له :-

المصطلح العلمي	العبارات
الخلايا	عملية تصنع فيها النباتات غذاؤها
البناء الضوئي	وحدات بنائية تكون أجسام المخلوقات الحية
البذرة	سلسلة من التغيرات يمر بها المخلوق الحي في نموه
التحول	تركيب يمكن أن ينبت لينمو ويصير نبات جديد

ج) / بوضع أشاره (√) نحدد الخيار الصحيح :

مخلوق حي يتغذى على مخلوقات حية أخرى :-

منتـــج (.....) | مستهلك (.....) | محلل (.....)

يتبع

١٠

السؤال الثاني :-

أ) / نضع أشاره (√) أمام العبارات الصحيحة وأشاره (X) أمام الخاطئة :

١- البرمائيات والحشرات تبدأ دورة حياتها بالبيضة (.....)

٢- الجزء المذكر في الزهرة ينتج حبوب اللقاح (.....)

٣- تحتاج المخلوقات الحية لكي تعيش إلى صخور (.....)

٤- الخلايا صغيرة جداً لا يمكن رؤيتها بالعين المجردة (.....)

ب) ما هي أجزاء النبات التي تقوم بالوظائف التالية :-

الوظيفة	الجزء
صنع الغذاء	.....
نقل الماء والأملاح المعدنية	.....
تثبيت النبات في التربة	.....

ج) ما الذي تحتاج إليه المخلوقات الحية لكي تعيش ؟

١- .....

٢- .....

٣- .....

٤- .....

د) نرتب الصور التالية لنحصل على سلسلة غذائية متكاملة :-

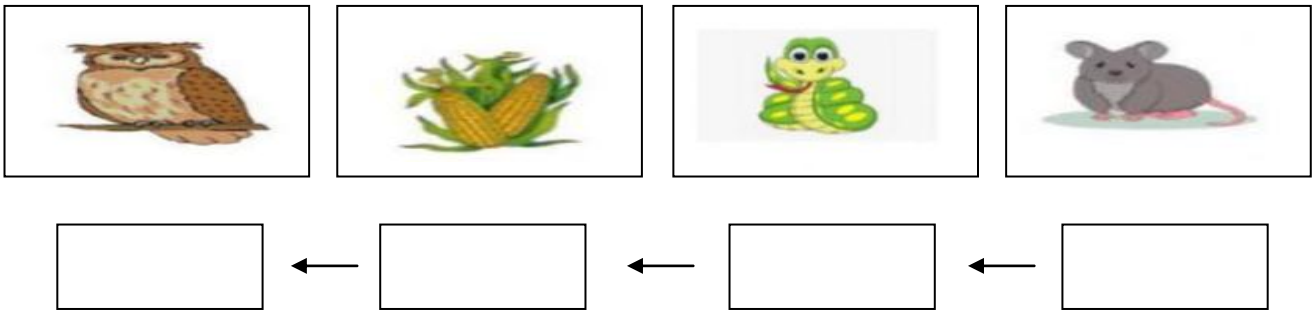

انتهت الاسئلة

معلمة المادة / سكره الشمري

نموذج اجابة

المملكة العربية السعودية
وزارة التعليم
الإدارة العامة للتعليم بمنطقة .....

رؤية VISION 2030 وزارة التعليم

الصف :
المادة :
اليوم :
التاريخ : / / ١٤٤٤ هـ

اختبار (الفترة الاولى) مادة العلوم للصف الثالث الفصل الدراسي الأول لعام ١٤٤٤ هـ

اسم الطالب / ة : ..... الدرجة الكلية ٢٠ درجة

السؤال الأول :-

١٠

* نختار الإجابة الصحيحة فيما يلي :

١) أول خطوة من خطوات الطريقة العلمية هي : (أسأل – أستنتج – ألاحظ)

٢) أي مما يلي يعد من المخلوقات الحية : (الرمل – النبات – الصخرة)

٣- جزء صغير في البذرة يستمد غذاؤه لينمو : (الجنين – البيئة – الأسماك)

٤- أشياء حية وأشياء غير حية مكونات: (النظام البيئي – التحول – الأزهار)

٥- ينتج المخلوق الحي أفراداً من نوعه: (التكاثر – الجذور – المكان)

ب) نصل كل مصطلح علمي بالعبارة المناسبة له :-

المصطلح العلمي	العبارات
الخلايا	عملية تصنع فيها النباتات غذاؤها
البناء الضوئي	وحدات بنائية تكون أجسام المخلوقات الحية
البذرة	سلسلة من التغيرات يمر بها المخلوق الحي في نموه
التحول	تركيب يمكن أن ينبت لينمو ويصير نبات جديد

ج) / بوضع أشاره (√) نحدد الخيار الصحيح :

مخلوق حي يتغذى على مخلوقات حية أخرى :-

منتـــج	مستهلك	محلل
(.....)	(√)	(.....)

يتبع

١٠

السؤال الثاني :-

أ) / نضع أشاره (√) أمام العبارات الصحيحة وأشاره (X) أمام الخاطئة :

١- البرمائيات والحشرات تبدأ دورة حياتها بالبيضة (√)

٢- الجزء المذكر في الزهرة ينتج حبوب اللقاح (√)

٣- تحتاج المخلوقات الحية لكي تعيش إلى صخور (X)

٤- الخلايا صغيرة جداً لا يمكن رؤيتها بالعين المجردة (√)

ب) ما هي أجزاء النبات التي تقوم بالوظائف التالية :-

الوظيفة	الجزء
صنع الغذاء	الورقه
نقل الماء والأملاح المعدنية	السباق
تثبيت النبات في التربة	الجذر

ج) ما الذي تحتاج إليه المخلوقات الحية لكي تعيش ؟

١- الماء

٢- الغذاء

٣- الهواء

٤- المكان

د) نرتب الصور التالية لنحصل على سلسلة غذائية متكاملة :-

٢ ← ٣ ← ١ ← ٤

انتهت الاسئلة

معلمة المادة / سكره الشمري

بِسۡمِ ٱللَّهِ ٱلرَّحۡمَٰنِ ٱلرَّحِيمِ

اختبار منتصف الفصل الدراسي الاول لمادة العلوم الصف الثالث ١٤٤٤هـ

اسم الطالب /

السؤال الأول

١٠

ضع علامة (√)أمام العبارة الصحيحة وعلامة (X)أمام العبارة الخاطئة

١	المخلوقات الحية تنمو وتتكاثر	( )
٢	توجد البذرة داخل الثمرة	( )
٣	التلقيح هو انتقال حبوب اللقاح من الجزء الذكري الى الجزء الانثوي في الزهرة	( )
٤	الثديات مثل الجمل لاتمر بمراحل التحول	( )
٥	تقوم الجذور بامتصاص الماء والاملاح من التربة	( )
٦	دورة حياة الخنفساء بيضة ثم يرقة ثم عذراء ثم خنفساء مكتملة النمو	( )
٧	الخلية هي وحدة بناء اجسام المخلوقات الحية	( )
٨	يوجد داخل البذرة جنين	( )
٩	الاستجابة هي قدرة المخلوق على التفاعل مع البيئة	( )
١٠	تنتج الزهرة حبوب اللقاح	( )

السؤال الثاني

٥

ضع الكلمة المناسبة في الفراغ المناسب فيما يلى؟

(الحشرات ـ التحول - التكاثر - البذرة - الورقة)

١	تقوم بعملية البناء الضوئي .....
٢	هو تغير بعض اشكال الحيوانات اثناء دورة حياتها .....
٣	تقوم بنقل حبوب اللقاح .....
٤	هو تركيب ينمو ثم يصبح نبات جديد .....
٥	.....انتاج افراد جديدة من نفس النوع

السؤال الثالث

اكتب دورة حياة الضفدع ؟

انتهت الاسئلة مع تمنياتي لكم بالتوفيق والنجاح

أبوراكان

نموذج اجابة

بِسۡمِ ٱللَّهِ ٱلرَّحۡمَٰنِ ٱلرَّحِيمِ

اختبار منتصف الفصل الدراسي الاول لمادة العلوم الصف الثالث ١٤٤٤هـ

اسم الطالب /

السؤال الأول

١٠

ضع علامة (√)أمام العبارة الصحيحة وعلامة (X)أمام العبارة الخاطئة

١	المخلوقات الحية تنمو وتتكاثر	(√)
٢	توجد البذرة داخل الثمرة	(√)
٣	التلقيح هو انتقال حبوب اللقاح من الجزء الذكري الى الجزء الانثوي في الزهرة	(√)
٤	الثديات مثل الجمل لاتمر بمراحل التحول	(√)
٥	تقوم الجذور بامتصاص الماء والاملاح من التربة	(√)
٦	دورة حياة الخنفساء بيضة ثم يرقة ثم عذراء ثم خنفساء مكتملة النمو	(√)
٧	الخلية هي وحدة بناء اجسام المخلوقات الحية	(√)
٨	يوجد داخل البذرة جنين	(√)
٩	الاستجابة هي قدرة المخلوق على التفاعل مع البيئة	(√)
١٠	تنتج الزهرة حبوب اللقاح	(√)

السؤال الثاني

٥

ضع الكلمة المناسبة في الفراغ المناسب فيما يلي؟

(الحشرات ـ التحول - التكاثر - البذرة - الورقة)

١	تقوم بعملية البناء الضوئي الورقة
٢	هو تغير بعض اشكال الحيوانات اثناء دورة حياتها التحول
٣	تقوم بنقل حبوب اللقاح الحشرات
٤	هو تركيب ينمو ثم يصبح نبات جديد البذرة
٥	التكاثر انتاج افراد جديدة من نفس النوع

السؤال الثالث

اكتب دورة حياة الضفدع ؟

٥

بيضة -- ابو ذنيبة – ضفدع صغير – ضفدع كبير

انتهت الاسئلة مع تمنياتي لكم بالتوفيق والنجاح

أبوراكان

المملكة العربية السعودية
إدارة التعليم شرق الدمام
المدرسة الثالثة والعشرون
(الطفولة المبكرة)

اسم الطالب/ة .....

اختبار مادة العلوم للصف الثالث الابتدائي ١٤٤٤هـ

١٠

السؤال الأول:أكمل/ي الجدول التالي : (أتوقع ـ أسال ـ أضع خطة ـ اتبع الخطة)

الطريقة العلمية
ألاحـــظ

٢

السؤال الثاني : ضع /ي كلمة (صح) أو (خطأ) أمام العبارات التالية:

١- من خصائص المخلوقات الحية " النمو" ( )
٢- البيئة هي المكان الذي يعيش فيه الكائن الحي ( )

١

السؤال الثالث: أكمل/ي الفراغ التالي حاجات المخلوقات الحية:

١- من حاجات المخلوقات الحية: المكان و.....و.....و.....

٢-تُسمّى الوحدة الأساسية لبناء أجسام المخلوقات الحي بـ .....

٢

السؤال الرابع : أ / صل/ي بين الرسم وبياناته ووظائف كل جزء:

ورقة
زهرة
جذور
الساق

٢

ب/ أكتب/ي اسم الجزء المسؤول عن الوظائف الآتية:

١-نقل الماء وحمل الأوراق (.....)
٢-صنع الغذاء وتقوم بعملية البناء الضوئي (.....)
٣-تمتص الماء والأملاح المعدنية وتُثبت النبات (.....)

٣

اختبار مادة العلوم للصف الثالث الابتدائي الفترة الأولى للفصل الدراسي الأول

وزارة التعليم
Ministry of Education

اسم الطالب : .....
الصف : .....

السؤال الأول: ضع (√) تحت المخلوقات الحية فيما يلي وعلامة (×) امام الأشياء غير الحية :-

(.....) (.....) (.....) (.....)

السؤال الثاني : حدد أسم ووظيفة أجزاء النبات في الصورة .

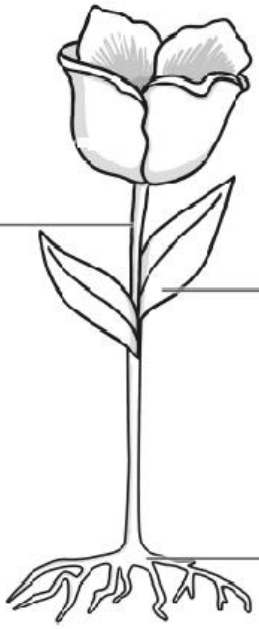

الاسم : .....
الوظيفة : .....

الاسم : .....
الوظيفة : .....

الاسم : .....
الوظيفة : .....

السؤال الثالث : ضع المفاهيم العلمية التالية عند العبارات المناسبة لها:-

(البيئة – الخلايا – التكاثر)

1- ينتج المخلوق الحي أفراد من نوعه (.....).
2- المكان الذي يعيش به المخلوق الحي (.....).
3- وحدات بنائية تكون أجسام جميع المخلوقات الحية (.....)